მე-3 კლასი

ანალოგიები

1. ციტრუსი:მანდარინი
   ა. ავეჯი:კარადა   ბ. მაგიდა:სკამი   გ. ვაშლი:მსხალი
2. შველი:ნუკრი   ლომი:
   ა. ლეკვი   ბ. ბოკვერი   გ. ბელი

წინადადებების შევსება

3. სალო ______ იძინებს ხოლმე, შესაბამისად, დილას _____ დგება.
   ა. საღამოობით ადრე/ ადრიანად
   ბ. ღამით გვიან/ადრიანად
   გ. საღამოობით ადრე/გვიან
4. ნანუკა _________ ჭამს, მაგრამ მაინც _______.
   ა. ძალიან ბევრს/გასუქდა
   ბ. თითქმის არ/გამხდარია
   გ. ძალიან ბევრს/გამხდარია

ლოგიკა

5. არჩილი, საბა და ირაკლი სიმაღლის მიხედვით დგანან. ვინაა ყველაზე მაღალი, თუ ცნობილია, რომ არჩილი ირაკლისა და ყველაზე დაბალს შორის დგას?
   ა. ირაკლი   ბ. არჩილი   გ. საბა
6. ცნობილია, რომ ყველა კინგსელს უყვარს კითხვა. მაშინ რომელი არ შეიძლება მოხდეს?
   ა. ნინო კინგსელია და უყვარს კითხვა
   ბ. ნინო არ არის კინგსელი და უყვარს კითხვა
   გ. ნინო კინგსელია და არ უყვარს კითხვა

IQ-ს ელემენტები

7. რომელია ზედმეტი?

ა   ბ   გ

8. რა ფიგურა უნდა ჩავსვათ კითხვის ნიშნის ნაცვლად?

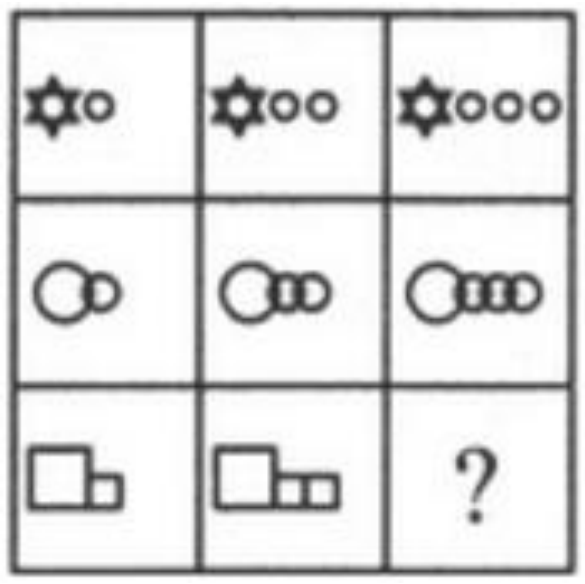

ა.  ბ. გ. 

მათემატიკური აზროვნება

9. რომელია მეტი? შემოხაზეთ ა თუ მეტია A, შემოხაზეთ ბ თუ მეტია B და შემოხაზეთ გ თუ A=B

   A = 4+5+6

   B = 17

   ა ბ გ

10. ერთ თაროზე 12 წიგნი დევს, მეორეზე _ 5-ით ნაკლები. რამდენი წიგნი დევს ორივე თაროზე?

    ა. 7 ბ. 19 გ. 17